EVALUACIÓN DE BACHILLERATO PARA EL ACCESO A LA UNIVERSIDAD

LOMCE – JULIO 2019

FÍSICA

INDICACIONES

Elegir una de las dos opciones. No deben resolverse cuestiones de opciones diferentes.

CONSTANTES FÍSICAS			
Velocidad de la luz en el vacío	$c = 3.0\ 10^8$ m s^{-1}	Masa del protón	$m_{p+} = 1.7\ 10^{-27}$ kg
Constante de gravitación universal	$G = 6.7\ 10^{-11}$ N m^2 kg^{-2}	Masa del electrón	$m_{e-} = 9.1\ 10^{-31}$ kg
Constante de Coulomb	$k = 9.0\ 10^9$ N m^2 C^{-2}	Carga del protón	$q_{p+} = 1.6\ 10^{-19}$ C
Constante de Planck	$h = 6.6\ 10^{-34}$ J s	Carga del electrón	$q_{e-} = -1.6\ 10^{-19}$ C
Radio de la Tierra	$R_T = 6370$ km	Masa de la Tierra	$M_T = 5.97 \cdot 10^{24}$ kg

Nota: estas constantes se facilitan a título informativo.

OPCIÓN DE EXAMEN Nº 1

1. Dada la ecuación de onda armónica transversal, en unidades S.I.

$y = 0.04\ sen\ (2\,x - \pi\,t + 2.0)$

a) [1 PUNTO] la longitud, la frecuencia de la onda y la velocidad de propagación.

b) [0,5 PUNTOS] El módulo de la velocidad máxima de oscilación de las partículas del medio por el cuál se propaga la onda.

c) [0,5 PUNTOS] Distancia entre dos puntos con una diferencia de fase de $\pi/2$ radianes.

2. Un rayo de luz monocromática se propaga desde un recipiente lleno de líquido de índice de refracción 1.30 hacia el aire.

a) [0,75 PUNTOS] Si el ángulo de incidencia es $\theta = 30$ °, calcula el ángulo de refracción.

b) [0,75 PUNTOS] Calcula la velocidad de la luz en el líquido.

c) [0,5 PUNTOS] Enuncia las leyes de la reflexión y la refracción, indicando mediante un dibujo los ángulos involucrados.

3. El Mo^{98} es un isótopo radiactivo que se desintegra por fisión en dos Sc^{49}. Sabiendo que la masa de Mo^{98} es de 97.90541 u.a.m. y la de cada Sc^{49} es de 48.95002 u.a.m. Sabiendo que 1 u.a.m. se corresponde con 935 MeV/c^2:

a) [0,75 PUNTOS] Calcula el defecto de masa.

b) [0,75 PUNTOS] La energía de la desintegración.

c) [0,5 PUNTOS] Explica en que consiste la desintegración β.

4. Un satélite de 700 kg realiza una órbita circular alrededor de la Tierra de 7500 km de radio. Obtener:

a) [1 PUNTO] El periodo del satélite.

b) [1 PUNTO] La energía potencial y mecánica.

5. Dos cargas eléctricas puntuales de valor 1 μC, y –1 μC, se encuentran situadas en los puntos (0, 0.1) y (0, -0.1) respectivamente, estando las distancias expresadas en m.

a) [1 PUNTO] Calcular y representar gráficamente la intensidad de campo en el punto (0.1, 0).

b) [1 PUNTO] ¿Cuál es el trabajo realizado por el campo sobre una carga de 2 μC cuando se desplaza desde el (0.1, 0) hasta el punto (0.1, 0.1)?

www.yoquieroaprobar.es

1.- Dada la ecuación de onda armónica transversal, en unidades S.I.

$$y\,(x,t) = 0,04\,.\;sen\,(2x - \pi t + 2,0)$$

a) **(1 p)** La longitud, la frecuencia de la onda y la velocidad de propagación.

La ecuación general de una onda que se propaga en el sentido positivo del eje X es:

$$y\,(x;t) = A\,.\;sen\;(k\,.\;x - \omega\,.\;t + \varphi_0) = A\,.\;sen\left(\frac{2\pi}{\lambda}\,.\;x - 2\pi f\,.\;t + \varphi_0\right)$$

Por identificación:

$$\frac{2\pi}{\lambda} = 2 \;\Rightarrow\; \lambda = \frac{2\pi}{2} = \pi\;m = 3,14\;m; \qquad 2\pi f = \pi \;\Rightarrow\; f = \frac{\pi}{2\pi} = 0,5\;Hz;$$

$$v = \lambda\,.\;f = \pi\,.\;0,5 = 1,57\;m/s$$

b) **(0,5 p)** El módulo de la velocidad máxima de oscilación de las partículas del medio por el cual se propaga la onda.

La velocidad de vibración de los puntos del medio es:

$$v = \frac{dy}{dt} = -0,04\pi\,.\;cos\,(2x - \pi t + 2,0)$$

La máxima velocidad de vibración se consigue cuando:

$$cos\;(2x - \pi t + 2,0) = \pm\;1 \;\Rightarrow\; v_{máx} = 0,04\pi = 0,13\;m/s$$

c) **(0,5 p)** Distancia entre dos puntos con una diferencia de fase de π/2 radianes.

$$\Delta\varphi = (2x_2 - \pi t + 2,0) - (2x_1 - \pi t + 2,0) = 2\,.\;(x_2 - x_1) = 2.\;\Delta x \;\Rightarrow\; \Delta x = \frac{\Delta\varphi}{2} = \frac{\pi}{4}\;m = 0,785\;m$$

También se puede resolver teniendo en cuenta que dos puntos de la onda separados una distancia igual a la longitud de onda tienen un desfase entre sí de 2π radianes. Por lo tanto:

$$\frac{\lambda}{2\pi} = \frac{\Delta x}{\Delta\varphi} \;\Rightarrow\; \Delta x = \frac{\lambda\,.\;\Delta\varphi}{2\pi} = \frac{\pi\,.\;\pi/2}{2\pi} = \frac{\pi}{4}\;m = 0,785\;m$$

2.- Un rayo de luz monocromática se propaga desde un recipiente lleno de líquido de índice de refracción 1,30 hacia el aire.

a) **(0,75 p)** Si el ángulo de incidencia es θ = 30 °, calcula el ángulo de refracción.

El ángulo de refracción lo obtenemos aplicando la ley de Snell de la refracción:

$$n_1\,.\;sen\,\theta = n_2\,.\;sen\,\theta_r \;\Rightarrow\; sen\,\theta_r = \frac{n_1\,.\;sen\,\theta}{n_2}$$

$$sen\,\theta_r = \frac{1,3\,.\;sen\,30°}{1} = 0,65 \;\Rightarrow\; \theta_r = arcsen\,0,65 = 40,54°$$

b) **(0,75 p)** Calcula la velocidad de la luz en el líquido.

$$n_1 = \frac{c}{v_1} \qquad \Rightarrow \qquad v_1 = \frac{c}{n_1} = \frac{3.10^8}{1,3} = 2,31.10^8\;m/s$$

www.yoquieroaprobar.es

c) **(0,5 p)** Enuncia las leyes de la reflexión y la refracción, indicando mediante un dibujo los ángulos involucrados.

Reflexión

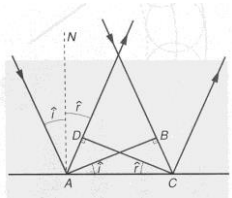

La reflexión es el cambio que se produce en la dirección de propagación de una onda dentro de un mismo medio. Este fenómeno se presenta cuando una onda incide sobre la superficie que separa el medio por el que se propaga de otro medio de propiedades elásticas distintas.

Al estudiar experimentalmente estos fenómenos, Snell observó que se cumplían las siguientes relaciones:

- **El rayo incidente, la normal y el rayo reflejado están en el mismo plano.**
- **Los ángulos de incidencia y de reflexión son iguales:** $\hat{\imath} = \hat{r}$

Refracción

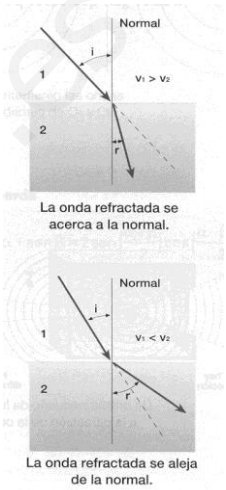

Cuando una onda que se propaga por un medio pasa a otro medio en el que su velocidad de propagación es diferente, la onda transmitida cambia la dirección en que se propaga con respecto a la que tenía la onda incidente. A este fenómeno se le denomina refracción.

En la refracción se cumple la Ley de Snell de la refracción: La relación entre el seno del ángulo de incidencia y el seno del ángulo de refracción es, para dos medios dados, constante e igual a la razón entre las velocidades v_1 y v_2 con que se propaga la onda en ambos medios, verificándose que:

$$\frac{sen\,\hat{\imath}}{sen\,\hat{r}} = \frac{v_1}{v_2} = n_{1,2} \qquad o \qquad n_1 \,.\, sen\,\hat{\imath} = n_2 \,.\, sen\,\hat{r}$$

3.- El Mo^{98} es un isótopo radiactivo que se desintegra por fisión en dos Sc^{49}. Sabiendo que la masa de Mo^{98} es de 97,90541 u.a.m. y la de cada Sc^{49} es de 48,95002 u.a.m. Sabiendo que 1 u.a.m. se corresponde con 935 MeV/c^2:

a) **(0,75 p)** Calcula el defecto de masa.

$$\Delta m = m_{Mo^{98}} - 2\,.\,m_{Sc^{49}} = 97,90541 - (2\,.\,48,95002) = 5,37.10^{-3}\ u.a.m.$$

b) **(0,75 p)** La energía de la desintegración.

Si aplicamos la ecuación de Einstein:

$$E = \Delta m\,.\,c^2 = 5,37.10^{-3}\,u.a.m.\,.\,\frac{935\ {}^{MeV}/_{c^2}}{1\ u.a.m.}\,.\,c^2 = 5,021\ MeV$$

Se desprenden 5,021 MeV por cada átomo de Mo^{98} desintegrado.

c) **(0,5 p)** Explica en que consiste la desintegración β.

La desintegración beta, emisión beta o decaimiento beta es un proceso mediante el cual un nucleido o núclido inestable emite una partícula beta (un electrón o positrón) para compensar la relación de neutrones y protones del núcleo atómico.
Cuando esta relación es inestable, algunos neutrones se convierten en protones. Como resultado de esta mutación, cada neutrón emite una partícula beta y un antineutrino electrónico o un neutrino electrónico.

$$n \rightarrow p^+ + e^- + \bar{\upsilon}_e$$

Según las reglas de Sody cuando un núcleo emite radiación beta se convierte en otro núcleo con el mismo número másico pero cuyo número atómico es una unidad mayor:

$${}^{A}_{Z}X \rightarrow {}_{Z+1}^{A}Y + {}_{-1}^{0}\beta$$

www.yoquieroaprobar.es

4.- Un satélite de 700 kg realiza una órbita circular alrededor de la Tierra de 7500 km de radio. Obtener:

a) **(1 p)** El periodo del satélite.

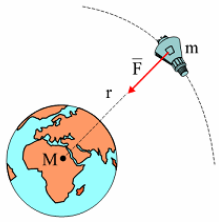

La fuerza gravitatoria de la Tierra actúa como fuerza centrípeta del movimiento del satélite.

$$G\,.\,\frac{M_T\,.\,m}{r^2} = m\,.\,\frac{v_0^2}{r} \Rightarrow v_0 = \sqrt{\frac{G\,.\,M_T}{r}} = \sqrt{\frac{6,7.10^{-11}\,.\,5,97.10^{24}}{7,5.10^6}} = 7302,9\ m/s$$

$$T = \frac{2\pi\,.\,r}{v_0} = \frac{2\pi\,.\,7,5.10^6}{7302,9} = 6452,8\ s \cong 1,8\ h$$

b) **(1 p)** La energía potencial y mecánica.

$$E_p = \frac{-G\,.\,M_T\,.\,m}{r} = \frac{-6,7.10^{-11}\,.\,5,97.10^{24}\,.\,700}{7,5.10^6} = -3,73.10^{10}\ J$$

La energía mecánica del satélite, también conocida como energía de enlace, es la suma de las energías cinética y potencial que tiene el satélite en su órbita.

$$E_m = E_c + E_p = \frac{1}{2}\,.\,m\,.\,(v_0)^2 + \left[\frac{-G\,.\,M_T\,.\,m}{r}\right] = \frac{1}{2}\,.\,m\,.\left(\sqrt{\frac{G\,.\,M_T}{r}}\right)^2 + \left[\frac{-G\,.\,M_T\,.\,m}{r}\right]$$

$$E_m = -\frac{1}{2}\,.\,G\,.\,\frac{M_T\,.\,m}{r} = -\frac{1}{2}\,.\,6,7.10^{-11}\,.\,\frac{5,97.10^{24}\,.\,700}{7,5.10^6} = -1,87.10^{10}\ J$$

5.- Dos cargas eléctricas puntuales de valor 1 μC, y –1 μC, se encuentran situadas en los puntos (0; 0,1) y (0; -0,1) respectivamente, estando las distancias expresadas en m.

a) **(1 p)** Calcular y representar gráficamente la intensidad de campo en el punto (0,1; 0).

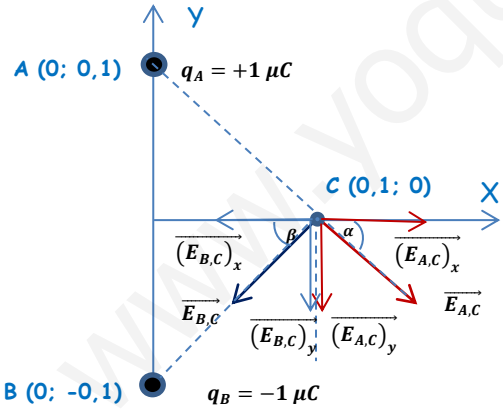

$$r_{A,C} = r_{B,C} = r = \sqrt{(0,1)^2 + (0,1)^2} = \sqrt{0,02}\ m$$

$$\alpha = \beta = arctg\left(\frac{0,1}{0,1}\right) = 45°$$

En el punto C se da una situación de simetría, ya que al ser $q_A = q_B$ (en módulo) y $r_{A,C} = r_{B,C}$, el módulo del campo eléctrico creado por ambas cargas es igual, por lo que al hacer la descomposición del vector las componentes horizontales se anulan entre sí (vectores iguales de sentido contrario) y el campo total es la suma de las dos componentes verticales, que también son iguales.

$$\vec{E}_C = \vec{E}_{A,C} + \vec{E}_{B,C} = 2\,.\,(\vec{E}_{A,C})_y = -2\,.\,K\,.\frac{q_A}{(r_{A,C})^2}\,.\ cos\,\alpha\ \vec{j} = -2\,.\,9.10^9\,.\frac{1.10^{-6}}{(\sqrt{0,02})^2}\,.\ sen\,45°\ \vec{j}$$

$$\vec{E}_C = -6,36.10^5\ \vec{j}\ N/C$$

www.yoquieroaprobar.es

b) **(1 p)** ¿Cuál es el trabajo realizado por el campo sobre una carga de 2 μC cuando se desplaza desde el (0,1; 0) hasta el punto (0,1; 0,1)?

Calculamos el potencial gravitatorio en ambos puntos:

$$V_C = V_{A,C} + V_{B,C} = K.\left(\frac{q_A}{r_{A,C}} + \frac{q_B}{r_{B,C}}\right) = K.\ \frac{q}{r}.\ \left(1 + (-1)\right) = 0\ V$$

$$V_D = V_{A,D} + V_{B,D} = K.\left(\frac{q_A}{r_{A,D}} + \frac{q_B}{r_{B,D}}\right) = K.q.\left(\frac{1}{r_{A,D}} - \frac{1}{r_{B,D}}\right) = 9.10^9.\ 1.10^{-6}.\left(\frac{1}{0,1} - \frac{1}{\sqrt{0,05}}\right) = 4,975.10^4\ V$$

$$(W_{C\to D})_{F\ eléctrica} = q'.\ (V_C - V_D) = 2.10^{-6}.\ (0 - 4,975.10^4) = -9,95.10^{-2}\ J$$

Proceso no espontáneo, es necesaria una fuerza externa para trasladar la carga. El trabajo realizado por esta fuerza es almacenado íntegramente por la carga trasladada en forma de energía potencial electrostática.
El resultado es lógico ya que estamos alejando una carga positiva de una carga negativa (que la atrae) y la estamos acercando a la carga positiva (que la repele).

www.yoquieroaprobar.es

OPCIÓN DE EXAMEN Nº 2

1. Una fuente sonora isótropa produce un nivel de intensidad sonora de 60 dB a 1 m de distancia. Si el umbral de percepción de intensidad $I = 10^{-12}$ W/m^2. Calcular:

a) [1 PUNTO] La intensidad del sonido de la fuente en ese punto.

b) [1 PUNTO] La potencia emitida por la fuente.

2. A 15 cm a la izquierda de una lente delgada convergente de distancia focal 10 cm se sitúa un cuerpo de 1 cm de altura.

a) [1 PUNTO] Determina la posición de la imagen mediante trazado de rayos.

b) [1 PUNTO] Determina numéricamente la posición, el tamaño y la naturaleza de la imagen.

3. El trabajo de extracción fotoeléctrico del sodio metálico es de 2.0 eV. Determinar:

a) [0,75 PUNTOS] La velocidad máxima con la que son emitidos los electrones, cuando se ilumina con luz de longitud de onda de 400 nm.

b) [0,75 PUNTOS] La frecuencia umbral para que sean emitidos los electrones de la superficie metálica.

c) [0,5 PUNTOS] Explica brevemente las dificultades de la física clásica para explicar el efecto fotoeléctrico.

Dato: 1eV=1,6.10^{-19} J

4. a) [1 PUNTO] ¿Cuál es la velocidad mínima que es preciso comunicar a un objeto de 1000 Kg situado a 1000 Km de altura sobre la superficie terrestre para que escape del campo gravitatorio? ¿En qué sentido?

b) [1 PUNTO] Obtén la energía total del cuerpo, cuando se encuentra en esa órbita y las diferentes contribuciones a esta.

5. Una espira rectangular de 4 cm^2 gira dentro de un campo magnético de 0.5 T dando lugar a una fuerza electromotriz sinusoidal.

a) [0,75 PUNTOS] Dar la expresión de la fuerza electromotriz en función de la frecuencia de rotación de la espira.

b) [0,75 PUNTOS] Si la fuerza electromotriz máxima es de 0.05 V ¿cuál es la frecuencia de rotación de la espira?

c) [0,5 PUNTOS] Enuncia la ley de Faraday.

www.yoquieroaprobar.es

CONSTANTES FISICAS			
Velocidad de la luz en el vacío	$c = 3.0\ 10^8$ m s^{-1}	Masa del protón	$m_{p+} = 1.7\ 10^{-27}$ kg
Constante de gravitación universal	$G = 6.7\ 10^{-11}$ N m^2 kg^{-2}	Masa del electrón	$m_{e-} = 9.1\ 10^{-31}$ kg
Constante de Coulomb	$k = 9.0\ 10^9$ N m^2 C^{-2}	Carga del protón	$q_{p+} = 1.6\ 10^{-19}$ C
Constante de Planck	$h = 6.6\ 10^{-34}$ J s	Carga del electrón	$q_{e-} = -1.6\ 10^{-19}$ C
Radio de la Tierra	$R_T = 6370$ km	Masa de la Tierra	$M_T = 5.97 \cdot 10^{24}$ kg

Nota: estas constantes se facilitan a título informativo.

1.- Una fuente sonora isótropa produce un nivel de intensidad sonora de 60 dB a 1 m de distancia. Si el umbral de percepción de intensidad es I = 10^{-12} W/m^2. Calcular:

a) **(1 p)** La intensidad del sonido de la fuente en ese punto.

De acuerdo a la Ley de Weber – Fechner, la sensación sonora o sonoridad, S, es proporcional a los logaritmos de las intensidades de los estímulos que las provocan:

$$S = 10\,.\,log\,\frac{I}{I_0} \;\Rightarrow\; 60 = 10\,.\,log\,\frac{I}{I_0} \;\Rightarrow\; 6 = log\,\frac{I}{I_0} \;\Rightarrow\; I = 10^6\,.\,I_0 = 10^6\,.\,10^{-12} = 10^{-6}\ W/m^2$$

b) **(1 p)** La potencia emitida por la fuente.

Teniendo en cuenta que el sonido se propaga en frentes de onda esféricos:

$$I = \frac{P}{S} \;\Rightarrow\; P = I\,.\,S = I\,.\,4\pi r^2 = 10^{-6}\,.\,4\pi\,.\,(1)^2 = 1,26.10^{-5}\ W$$

2.- A 15 cm a la izquierda de una lente delgada convergente de distancia focal 10 cm se sitúa un cuerpo de 1 cm de altura.

a) **(1 p)** Determina la posición de la imagen mediante trazado de rayos.

Para construir gráficamente las imágenes de una lente delgada es necesario dibujar al menos la trayectoria de dos rayos y hallar su intersección después de refractarse en la lente. Existen tres rayos cuyas trayectorias pueden ser trazadas fácilmente:

- **Un rayo paralelo al eje óptico una vez refractado pasa por el foco imagen F'.**
- **Un rayo que pase por el foco objeto F se refracta paralelo al eje óptico.**
- **Un rayo que pase por el centro geométrico de la lente (centro óptico) no se desvía.**

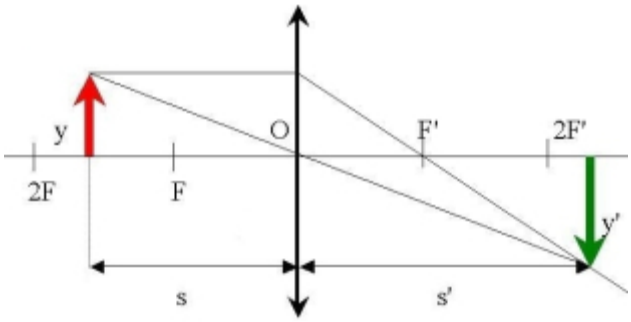

(El diagrama no está hecho a escala)

b) **(1 p)** Determina numéricamente la posición, el tamaño y la naturaleza de la imagen.

Aplicando la ecuación de las lentes delgadas:

$$\frac{1}{s'} - \frac{1}{s} = \frac{1}{f'} \;\Rightarrow\; \frac{1}{s'} - \frac{1}{-15} = \frac{1}{10} \;\Rightarrow\; s' = 30\ cm$$

www.yoquieroaprobar.es

La imagen es real ya que se forma detrás de la lente (distancia imagen positiva).

Aplicando la ecuación del aumento lateral:

$$M_L = \frac{y'}{y} = \frac{s'}{s} \quad \Rightarrow \quad y' = y\,.\left(\frac{s'}{s}\right) = 1\,.\left(\frac{30}{-15}\right) = -2\ cm$$

La imagen es invertida (objeto e imagen tienen distinto signo) y de mayor tamaño que el objeto.

3.- El trabajo de extracción fotoeléctrico del sodio metálico es de 2.0 eV. Determinar:

DATO: 1eV = $1{,}6.10^{-19}$ J

a) **(0,75 p)** La velocidad máxima con la que son emitidos los electrones, cuando se ilumina con luz de longitud de onda de 400 nm.

Si aplicamos la ecuación de Einstein del efecto fotoeléctrico:

$$E_{fotón\ inc.} = W_0 + \left(E_{c,máx}\right)_{electrón\ emitido} \quad \Rightarrow \quad E_{c,máx} = E_{fotón\ inc.} - W_0 = h\,.\,\frac{c}{\lambda} - W_0$$

$$E_{c,máx} = 6{,}6.10^{-34}\,.\,\frac{3.10^8}{400.10^{-9}} - \left(2\,.\,1{,}6.10^{-19}\right) = 1{,}75.10^{-19}\ J$$

$$E_{c,máx} = \frac{1}{2}\,.\,m\,.\,v_{máx}^2 \quad \Rightarrow \quad v_{máx} = \sqrt{\frac{2\,.\,E_{c,máx}}{m}} = \sqrt{\frac{2\,.\,1{,}75.10^{-19}}{9{,}1.10^{-31}}} = 6{,}2.10^5\ m/s$$

b) **(0,75 p)** La frecuencia umbral para que sean emitidos los electrones de la superficie metálica.

En el efecto fotoeléctrico, para cada metal existe una frecuencia luminosa umbral, f_0, por debajo de la cual no se produce la emisión fotoeléctrica, sea cual sea la intensidad de la luz o radiación incidente. Esta frecuencia umbral se corresponde con la de un fotón cuya energía es igual al trabajo de extracción de dicho metal.

$$W_0 = h\,.\,f_0 \quad \Rightarrow \quad f_0 = \frac{W_0}{h} = \frac{2\,.\,1{,}6.10^{-19}}{6{,}6.10^{-34}} = 4{,}85.10^{14}\ Hz$$

c) **(0,5 p)** Explica brevemente las dificultades de la física clásica para explicar el efecto fotoeléctrico.

Las siguientes observaciones experimentales acerca del efecto fotoeléctrico no son explicables mediante la teoría ondulatoria de la luz, en la que se supone que la energía llega a la superficie del metal de forma continua:

- **La energía de los electrones emitidos es independiente de la intensidad de la luz incidente. Sin embargo, en la teoría ondulatoria la energía de la luz depende de la intensidad de la misma y, por tanto, la energía de los electrones emitidos debería aumentar con la intensidad de la luz.**
- **Los electrones se emiten de forma instantánea a la llegada de la luz. Sin embargo según la teoría ondulatoria de la luz, si la energía de la luz incidente llegase de manera continua y se repartiese uniformemente entre los átomos de la superficie del metal, éstos tardarían mucho tiempo en tener la energía suficiente para abandonar la superficie.**
- **La energía cinética máxima de los electrones emitidos depende de la frecuencia de la radiación incidente. Por debajo de una frecuencia, f_0, llamada frecuencia umbral, propia de cada metal, no existe emisión electrónica. Sin embargo, según la teoría ondulatoria, cualquier radiación incidente, con el tiempo, llegaría a acumular energía suficiente para extraer electrones de los átomos de la superficie.**

www.yoquieroaprobar.es

4.-

a) **(1 p)** ¿Cuál es la velocidad mínima que es preciso comunicar a un objeto de 1000 kg situado a 1000 km de altura la superficie terrestre para que escape del campo gravitatorio? ¿En qué sentido?

La velocidad de escape es la velocidad mínima que debemos suministrar a un cuerpo situado dentro de un campo gravitatorio para escapar de la influencia de éste.
La fuerza gravitatoria es una fuerza conservativa, de modo que la energía mecánica se conserva.
Para que un cuerpo lanzado desde un punto dentro de un campo gravitatorio pueda abandonar éste, el cuerpo debe llegar a un punto suficientemente alejado con energía potencial gravitatoria nula (ya que hemos tomado como referencia potencial 0 un punto suficientemente alejado, el infinito, donde la influencia gravitatoria puede considerarse nula) y con energía cinética nula. Cuando el cuerpo alcanza esta situación su energía mecánica es 0, de modo que aplicando el principio de conservación de la energía mecánica:

$$\frac{-G\,.\,M_T\,.\,m}{r}+\frac{1}{2}\,.\,m\,.\,v_e^2=0 \;\Rightarrow\; v_e=\sqrt{\frac{2\,.\,G\,.\,M_T}{r}}=\sqrt{\frac{2\,.\,6,7.10^{-11}\,.\,5,97.10^{24}}{7,37.10^6}}=10418,5\;m/s$$

La velocidad de escape no depende de la dirección del lanzamiento (salvo aquellas que harían que el objeto se estrellase sobre la superficie terrestre) ni de la masa del objeto, como hemos podido demostrar al hacer una deducción estrictamente energética.

b) **(1 p)** Obtén la energía total del cuerpo, cuando se encuentra en esa órbita y las diferentes contribuciones a esta.

Un cuerpo en órbita tiene energía potencial gravitatoria (que es función de la distancia al centro del objeto de masas del objeto alrededor del cual orbita) y energía cinética (que es función de la velocidad con la que el cuerpo está orbitando). La energía total de este cuerpo es la suma de estas dos energías y reciben el nombre de energía mecánica orbital o energía de enlace.

$$E_p=\frac{-G\,.\,M_T\,.\,m}{r}=\frac{-6,7.10^{-11}\,.\,5,97.10^{24}\,.\,1000}{7,37.10^6}=-5,4.10^{10}\;J$$

La fuerza gravitatoria de la Tierra actúa como fuerza centrípeta del movimiento del satélite.

$$G\,.\,\frac{M_T\,.\,m}{R^2}=m\,.\frac{v_O^2}{R}\;\Rightarrow\; v_O=\sqrt{\frac{G\,.\,M_T}{R}}$$

$$E_C=\frac{1}{2}\,.\,m\,.\,(v_O)^2=\frac{1}{2}\,.\,m\,.\left(\sqrt{\frac{G\,.\,M_T}{r}}\right)^2=\frac{G\,.\,M_T\,.\,m}{2r}=\frac{6,7.10^{-11}\,.\,5,97.10^{24}\,.\,1000}{2\,.\,7,37.10^6}=2,7.10^{10}\;J$$

$$E_m=E_c+E_p=-5,4.10^{10}+2,7.10^{10}=-2,7.10^{10}\;J$$

5.- Una espira rectangular de 4 cm^2 gira dentro de un campo magnético de 0,5 T dando lugar a una fuerza electromotriz sinusoidal.

a) **(0,75 p)** Dar la expresión de la fuerza electromotriz en función de la frecuencia de rotación de la espira.

Por definición el flujo magnético que atraviesa una superficie es:

$$\phi=\vec{B}\,.\,\vec{S}=B\,.\,S\,.\cos\theta$$

Siendo θ el ángulo formado entre los vectores intensidad de campo magnético y superficie.

www.yoquieroaprobar.es

Como la espira está girando con movimiento circular uniforme, este ángulo va variando a lo largo del tiempo de acuerdo a:

$$\theta = \theta_0 + \omega \,.\, t = \theta_0 + 2\pi \,.\, f \,.\, t \;\; (rad/s)$$

El flujo que atraviesa la espira será:

$$\phi = \vec{B} \,.\, \vec{S} = B \,.\, S \,.\cos\theta = 0,5 \,.\, 4.10^{-4} \,.\, cos\,(\theta_0 + 2\pi \,.\, f \,.\, t) = 2.10^{-4} \,.\, cos\,(\theta_0 + 2\pi \,.\, f \,.\, t) \;\; (Wb)$$

Para calcular la f.e.m. inducida aplicamos la ley de Faraday-Lenz:

$$\varepsilon_{ind} = -N \,.\, \frac{d\phi}{dt} = -N \,.\frac{d\left(2.10^{-4} \,.\, cos\,(\theta_0 + 2\pi \,.\, f \,.\, t)\right)}{dt} = -1\left(2.10^{-4} \,.\, 2\pi f \,.\, -sen\;(\theta_0 + 2\pi \,.\, f \,.\, t)\right)$$

$$\varepsilon_{ind} = 4.10^{-4} \,.\, \pi \,.\, f \,.\, sen\;(\theta_0 + 2\pi \,.\, f \,.\, t) \;\; (V)$$

b) **(0,75 p)** Si la fuerza electromotriz máxima es de 0,05 V ¿cuál es la frecuencia de rotación de la espira?

$$(\varepsilon_{ind})_{máx} \;\Rightarrow\; sen\;(\theta_0 + 2\pi \,.\, f \,.\, t) = 1 \;\Rightarrow\; 4.10^{-4} \,.\, \pi \,.\, f = 0,05 \;\Rightarrow\; f = \frac{0,05}{4.10^{-4} \,.\, \pi} = 39,8\;Hz$$

c) **(0,5 p)** Enuncia la ley de Faraday.

"La corriente inducida es producida por una fuerza electromotriz inducida que es directamente proporcional a la rapidez con la que varía el flujo y directamente proporcional al número de espiras del inducido"

$$\varepsilon \propto N \,.\, \frac{\Delta\emptyset}{\Delta t}$$

www.yoquieroaprobar.es