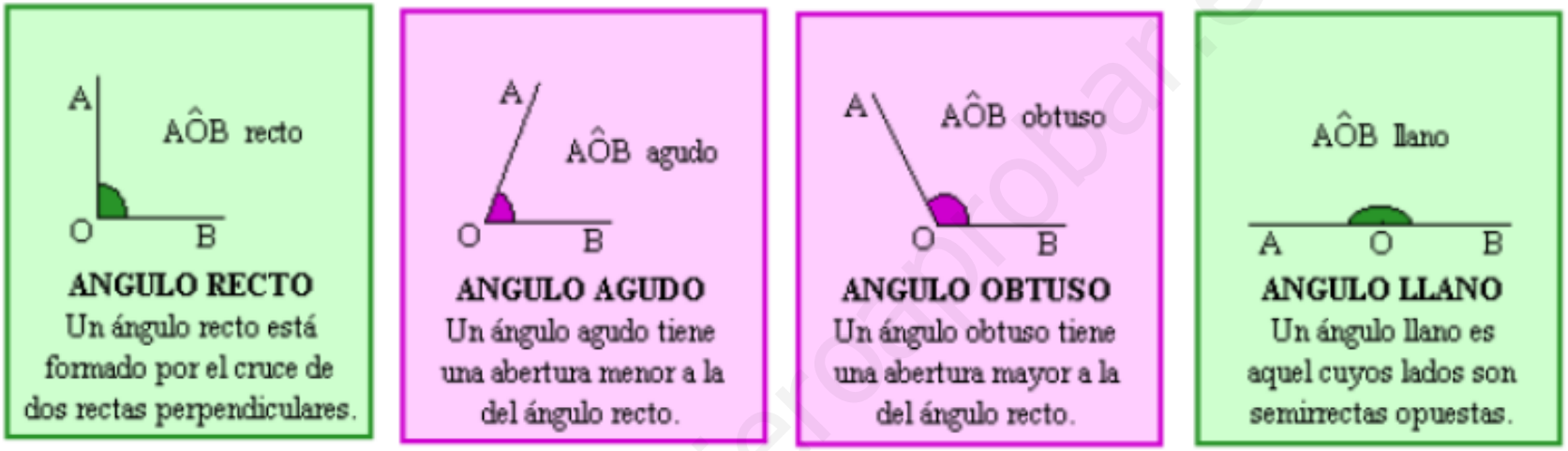

(Rectas perpendiculares son las que se cortan formando cuatro ángulos iguales).

El ángulo recto tiene 90º porque es la mitad de un ángulo llano. Cuatro ángulos rectos forman un ángulo completo.

El ángulo llano tiene 180º porque es la mitad de un ángulo completo.

El ángulo completo tiene 360º.

www.yoquieroaprobar.es

Escribe el nombre de estos ángulos.

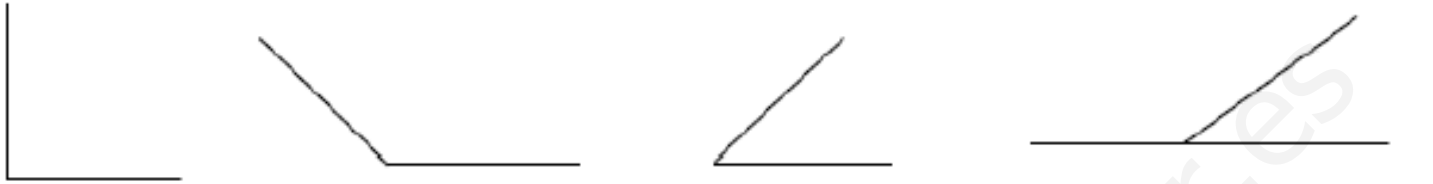

_____ _____ _____ _____

Relaciona estas dos columnas:

Amplitud	Tipo de ángulo
15º	Llano
90º	Obtuso
150º	Agudo
180º	Recto

Fíjate en estos relojes y di el tipo de ángulo que se forma en cada uno de ellos:

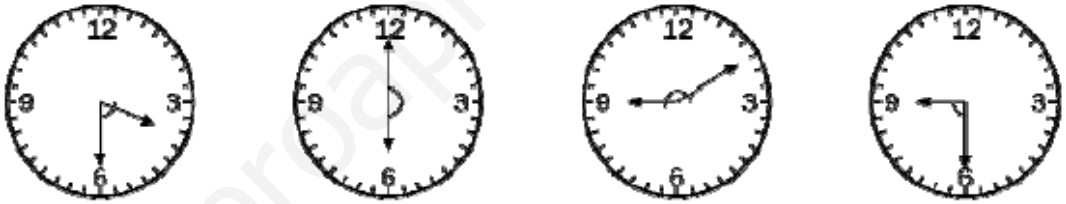

Traza en tu cuaderno ángulos con las siguientes medidas y anota los su nombre.

1. 130º
2. 40º
3. 75º
4. 180º
5. 60º

Mide estos ángulos:

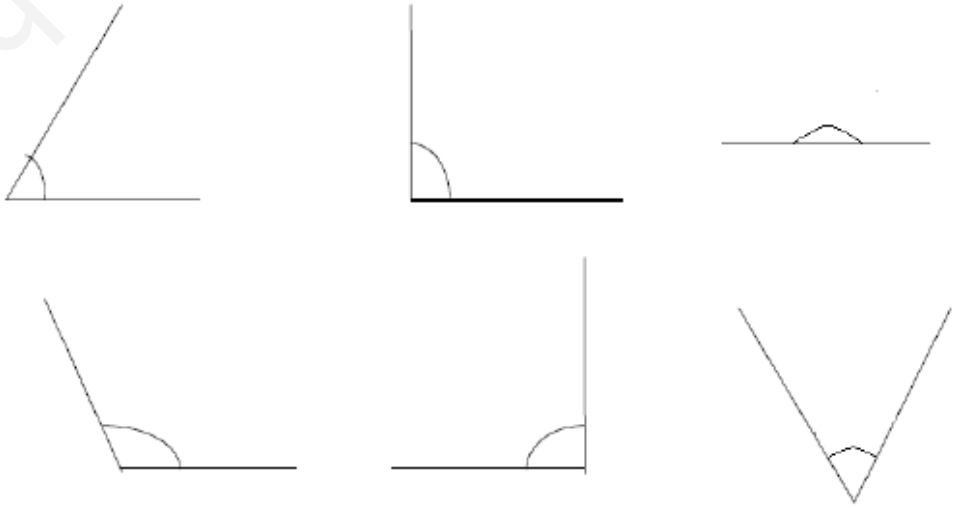

www.yoquieroaprobar.es

Ayuda a este señor que está buscando en su taller 15 objetos con ángulos rectos, agudos y obtusos (5 de cada). Rodea de rojo los rectos, de azul los agudos y de verde los obtusos.
Ten encuenta que los lados deben ser rectos para formar ángulos.



www.yoquieroaprobar.es